Name: _____ Klasse: _____

Plattengrenzen (1)

1. Beschrifte die Grafiken (*Kollision, Grabenbildung (Rift Valley), Seafloor Spreading, Subduktion*).
2. Beschreibe kurz die Vorgänge an den Plattengrenzen.

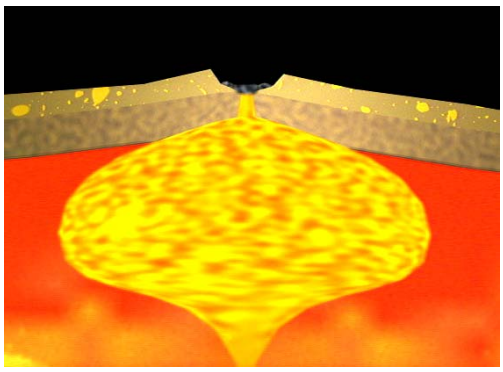

Vorgang: _____

_____

_____

_____

_____

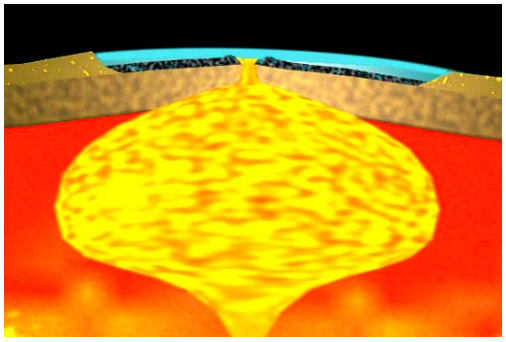

Vorgang: _____

_____

_____

_____

_____



Vorgang: _____

_____

_____

_____

_____



Vorgang: _____

_____

_____

_____

_____

© FWU Institut für Film und Bild / Klett-Perthes